Nombres et quantités : de 0 à 40

1 Complète avec le bon nombre :

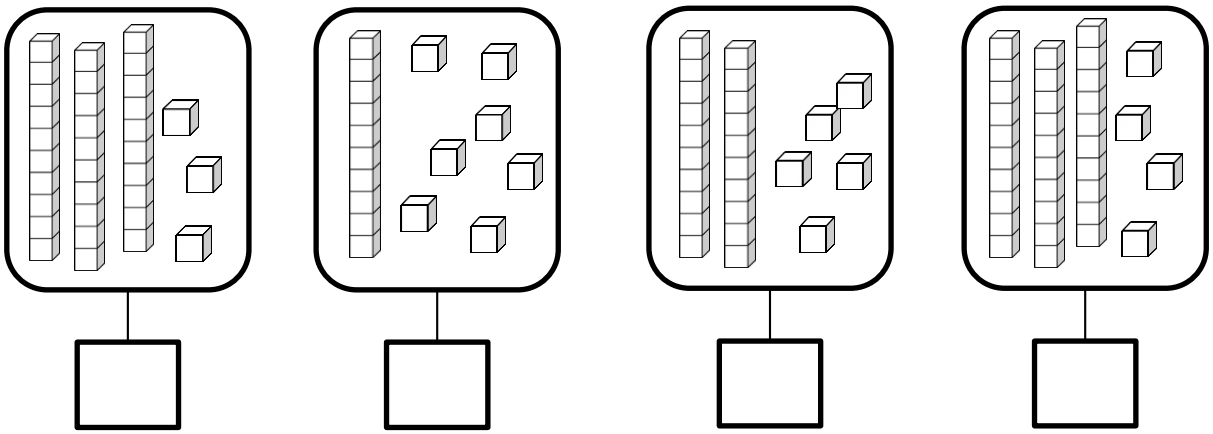

2 Complète la bande numérique:

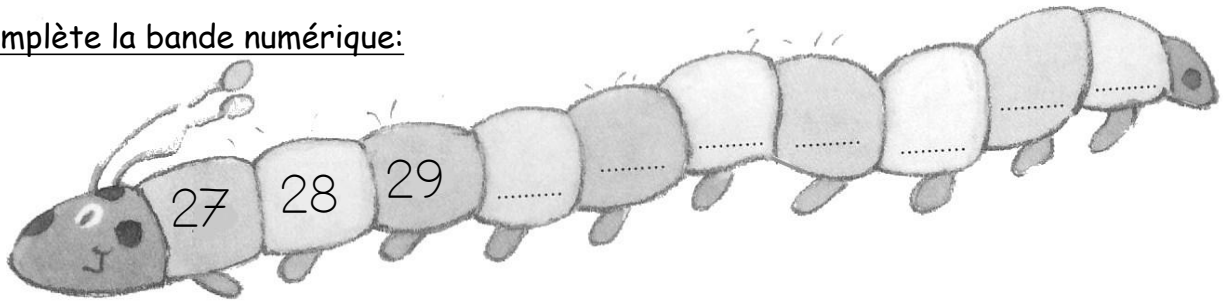

Nombres et quantités : de 0 à 40

1 Complète le tableau des nombres

0	1	2		4	5	6	7		9
10		12	13	14	15	16	17	18	
	21	22	23	24			27	28	29
30	31		33		35	35		38	
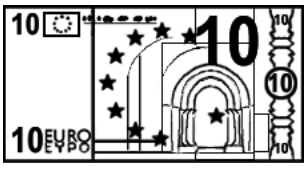
2 Trouve combien Arthur a d'argent dans sa tirelire :