Géométrie- Ex 5 et 6 p 153 Math outil

5 Trace deux droites (D_1) et (D_2) distantes de 3 cm. Trace une droite (D_3) parallèle à (D_1) et distante de celle-ci de 5 cm. Que peux-tu dire des droites (D_2) et (D_3) ?
Justifie ta réponse.

6 Observe le dessin. Reproduis puis complète le tableau par ⊥ (perpendiculaire à) ou // (parallèle à).

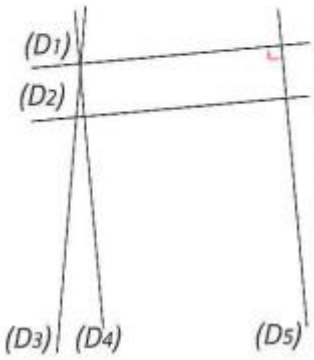

	(D1)	(D2)	(D3)	(D4)	(D5)
(D1)					
(D2)					
(D3)					
(D4)					
(D5)					

A2 **Trace** une droite (d_2) sur papier blanc.
Trace la droite (d_3) parallèle à (d_2).
L'écartement entre (d_2) et (d_3) est de 7 cm.

A3 **Reproduis** la figure ci-dessous en respectant les mesures indiquées.

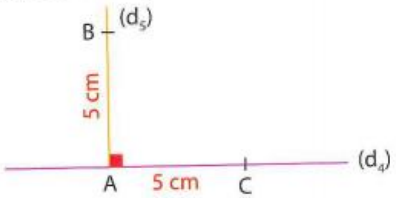

- **Trace** (d_6) // (d_5) passant par C.
- **Trace** (d_7) // (d_4) passant par B.
- D est le point d'intersection de (d_6) et (d_7).
- Quelle est la nature du quadrilatère ABDC ?

A4 **Reproduis** la figure avec les mesures indiquées.

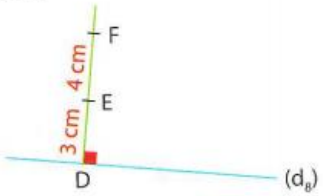

- **Trace** (d_9) // (d_8) passant par E.
- **Trace** (d_{10}) // (d_8) passant par F.