Poser des soustractions en colonnes avec retenue

....

Apprenons ensemble

Calculons.

54 – 38 = ...

J'échange 1 dizaine contre 10 unités.

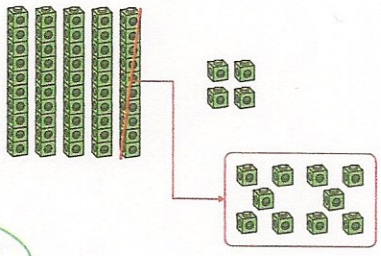

	d	u
	4 ~~5~~	1 4
–	3	8
	.	.

Entraînons-nous

1 **Pose** et **calcule**.

61 – 45 =

	d	u
	5 ~~6~~	1 1
–	4	5
	1	6

J'échange 1 dizaine contre 10 unités.

95 – 77 =

	d	u
	8 ~~9~~	1 5
–	7	7
	1	8

2 **Pose** et **calcule**.

139 – 63 = ...

	c	d	u
	0 ~~1~~	1 3	9
–		6	3
	0	7	6

J'échange 1 centaine contre 10 dizaines.

427 – 182 = ...

	c	d	u
	3 ~~4~~	1 2	7
–	1	8	2
	2	4	5

Je travaille seul(e)

3 **Pose** et **calcule**.

93 – 57 = ...

	d	u
	~~9~~ 8	13
–	5	7
	3	6

264 – 82 = ...

	c	d	u
	1 ~~2~~	16	4
–	.	8	2
	1	8	2

563 – 391 = ...

	c	d	u
	4 ~~5~~	16	3
–	3	9	1
	1	7	2

4 Misti a **83 €**. Elle achète une combinaison de ski à **57 €**. Combien d'argent lui **restera**-t-il ? **Barre** et **dessine** l'échange nécessaire.
Entoure ce qu'elle donne pour payer, puis **complète**.



83 – 57 = 26

Il lui restera **26** euros.

5 Pic a fabriqué **234** boules de neige mais Pilou en a déjà lancé **88**.
Combien **reste**-t-il de boules de neige à Pic ? **Calcule** et **complète**.

	1 ~~2~~	12 ~~3~~ 4
–	8	8
	1	4 6

234 – 88 = 146

Il reste **146** boules de neige à Pic.

Je révise

Flip a **24** paires de gants. Pic lui donne les siens. Maintenant, Flip a **36** paires de gants. Combien de paires de gants Pic lui a-t-il données ? **Calcule** et **complète**.

36 – 24 = 12

36 – 12 = 24

Pic a donné **12** paires de gants à Flip.

36	
24	?

Je travaille seul(e)

3 **Pose** et **calcule**.

93 – 57 = ...

	d	u
	~~9~~ 8	13
–	5	7
	3	6

264 – 82 = ...

	c	d	u
	1 ~~2~~	16	4
–	.	8	2
	1	8	2

563 – 391 = ...

	c	d	u
	4 ~~5~~	16	3
–	3	9	1
	1	7	2

4 Misti a **83 €**. Elle achète une combinaison de ski à **57 €**. Combien d'argent lui **restera**-t-il ? **Barre** et **dessine** l'échange nécessaire.
Entoure ce qu'elle donne pour payer, puis **complète**.



83 – 57 = 26

Il lui restera **26** euros.

5 Pic a fabriqué **234** boules de neige mais Pilou en a déjà lancé **88**.
Combien **reste**-t-il de boules de neige à Pic ? **Calcule** et **complète**.

	1 ~~2~~	12 ~~3~~ 4
–		8 8
	1	4 6

234 – 88 = 146

Il reste **146** boules de neige à Pic.

Je révise

Flip a **24** paires de gants. Pic lui donne les siens. Maintenant, Flip a **36** paires de gants. Combien de paires de gants Pic lui a-t-il données ? **Calcule** et **complète**.

36 – 24 = 12

36 – 12 = 24

Pic a donné **12** paires de gants à Flip.

36	
24	?